反射テスト　面積　三角形　基礎　01

1.　三角形の面積を求めよ.（ S 級 25 秒, A 級 45 秒, B 級 1 分, C 級 2 分 ）

(1)

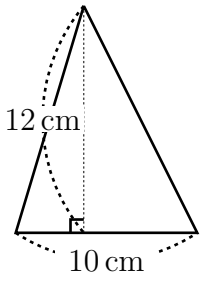

(2)

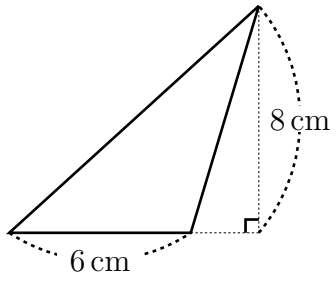

(3)

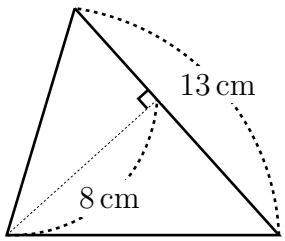

(4)

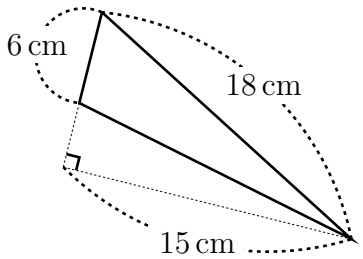

ⓒ 数学・算数を楽しむために（ http : //www.enjoymath.sakura.ne.jp/index.html ）

2. 三角形の面積を求めよ.（ S 級 25 秒, A 級 45 秒, B 級 1 分, C 級 2 分 ）

(1)

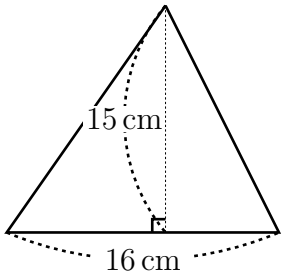

(2)

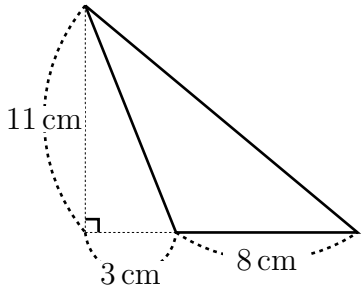

(3)

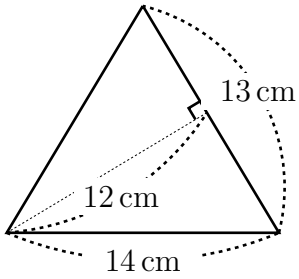

(4)

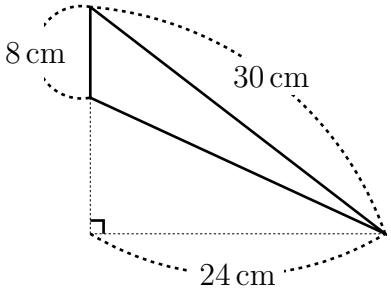

ⓒ 数学・算数を楽しむために（ http : //www.enjoymath.sakura.ne.jp/index.html ）

反射テスト　面積　三角形　基礎　01　解答解説

1.　三角形の面積を求めよ.（ S 級 25 秒, A 級 45 秒, B 級 1 分, C 級 2 分 ）

(1)

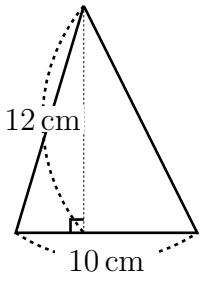

★ 三角形の面積

底辺　×　高さ　÷　2　＝　面積

10 cm　×　12 cm　÷　2　＝　**60 cm²**

(2)

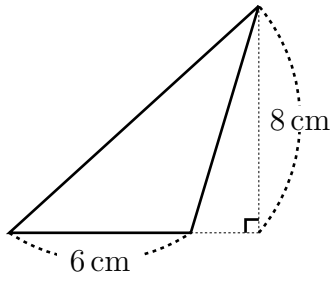

★ 三角形の面積

底辺　×　高さ　÷　2　＝　面積

6 cm　×　8 cm　÷　2　＝　**24 cm²**

☆高さが三角形の外にあることもある.

(3)

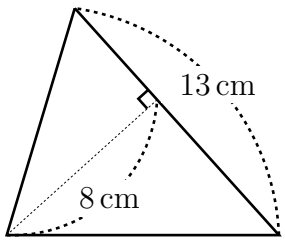

★ 三角形の面積

底辺　×　高さ　÷　2　＝　面積

13 cm　×　8 cm　÷　2　＝　**52 cm²**

(4)

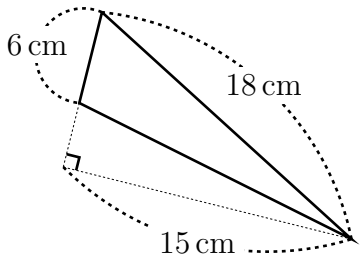

★ 三角形の面積

底辺　×　高さ　÷　2　＝　面積

6 cm　×　15 cm　÷　2　＝　**45 cm²**

☆高さが三角形の外にあることもある.

ⓒ 数学・算数を楽しむために（ http : //www.enjoymath.sakura.ne.jp/index.html ）

2. 三角形の面積を求めよ.（ S 級 25 秒, A 級 45 秒, B 級 1 分, C 級 2 分 ）

(1)

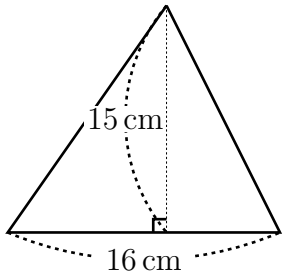

★ 三角形の面積

底辺 × **高さ** ÷ 2 ＝ **面積**

16 cm × 15 cm ÷ 2 ＝ **120 cm²**

(2)

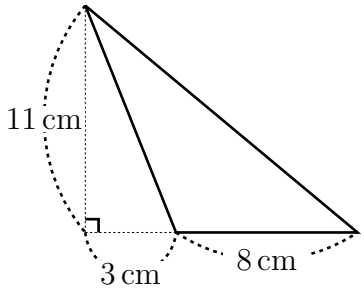

★ 三角形の面積

底辺 × **高さ** ÷ 2 ＝ **面積**

8 cm × 11 cm ÷ 2 ＝ **44 cm²**

☆高さが三角形の外にあることもある.

(3)

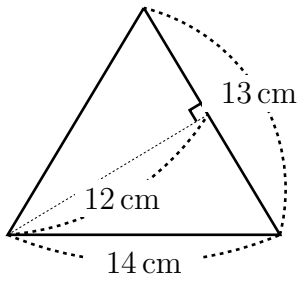

★ 三角形の面積

底辺 × **高さ** ÷ 2 ＝ **面積**

13 cm × 12 cm ÷ 2 ＝ **78 cm²**

(4)

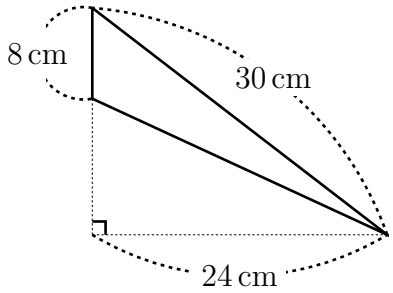

★ 三角形の面積

底辺 × **高さ** ÷ 2 ＝ **面積**

8 cm × 24 cm ÷ 2 ＝ **96 cm²**

☆高さが三角形の外にあることもある.

ⓒ 数学・算数を楽しむために（ http : //www.enjoymath.sakura.ne.jp/index.html ）